Ecris la date : _____ MATHEMATIQUES

Séance de régularisation. Pas de vidéo.

ACTIVITES RITUALISEES Les presque doubles

Calcule en utilisant les doubles.

5 + 6 = …… 6 + 7 = …… 8 + 9 = ……

7 + 8 = …… 4 + 5 = …… 6 + 8 = ……

CALCUL MENTAL

Si vous ne pouvez pas imprimer, recopier cette fiche sur une feuille, puis laisser 3 minutes à votre enfant pour faire les calculs.

Une fois terminés, corriger ces calculs avec votre enfant.

CHRONOMATH 6

3 min

1	2 + 2 = …	11	30 + 7 = …
2	7 + 1 = …	12	40 + 1 = …
3	10 + 1 = …	13	8 – 1 = …
4	4 + 2 = …	14	17 – 1= …
5	6 + 2 = …	15	28– 1= …
6	10 + 9 = …	16	15 – 1 = …
7	4 + 4 = …	17	15 – 2 = …
8	7 + 3 = …	18	26 – 1 = …
9	5 + 5 = …	19	28 – 3 = …
10	5 + 6 = …	20	30 – 5 = …

SCORE : CP

CALCUL calculer des additions en ligne.

Méthodologie: commencer par additionner les unités avec les unités, puis les dizaines avec les dizaines. Pour aider, colorier les unités en bleu et les dizaines en rouge.

Calcule en ligne:

2 3 + 4 1 = …… **5 2 + 6 2 = ……** **3 0 + 1 7 = ……**

3 5 + 2 4 = …… **4 7 + 4 1 = ……** **7 1 + 2 6 = ……**

APPRENTISSAGE : les nombres de 60 à 79

Avant de commencer, pour te souvenir des nombres, récite la comptine numérique jusqu'à 79.

Ensuite, regarde cette petite vidéo:

https://lesfondamentaux.reseau-canope.fr/video/nombres-de-70-a-79.html

Puis regarde cette vidéo, c'est un exercice de lecture de nombres de la famille du 70 :

https://www.youtube.com/watch?v=VgdDhQGtA3Q

Enfin, lis cette ligne de nombres:

70	**65**	**72**	**69**	**79**	**71**	**63**	**75**	**67**	**78**

Pour terminer cette séance, voici une fiche d'exercices à imprimer ou à faire en écrivant tes réponses sur une feuille.

Nombres et quantités : de 0 à 80

1 Complète avec le bon nombre :

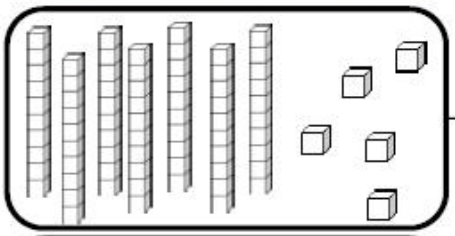

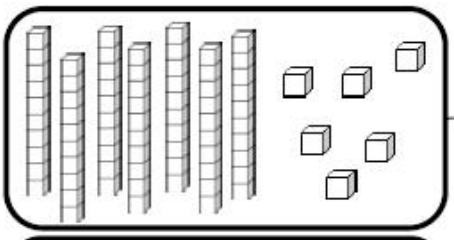

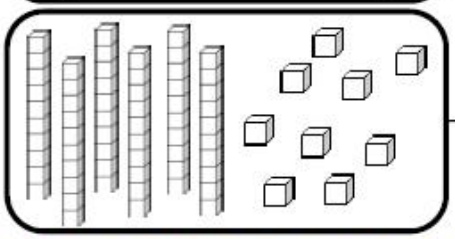

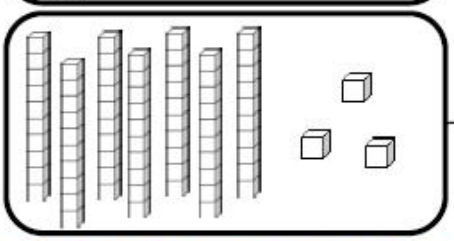

2 Complète la bande numérique:



Nombres et quantités : de 0 à 80

1 Complète les cases grisées du tableau des nombres

	31								
						46			
		52							
60					65				
									79

2 Colorie les pièces et billets correspondants à la somme dans la tirelire :

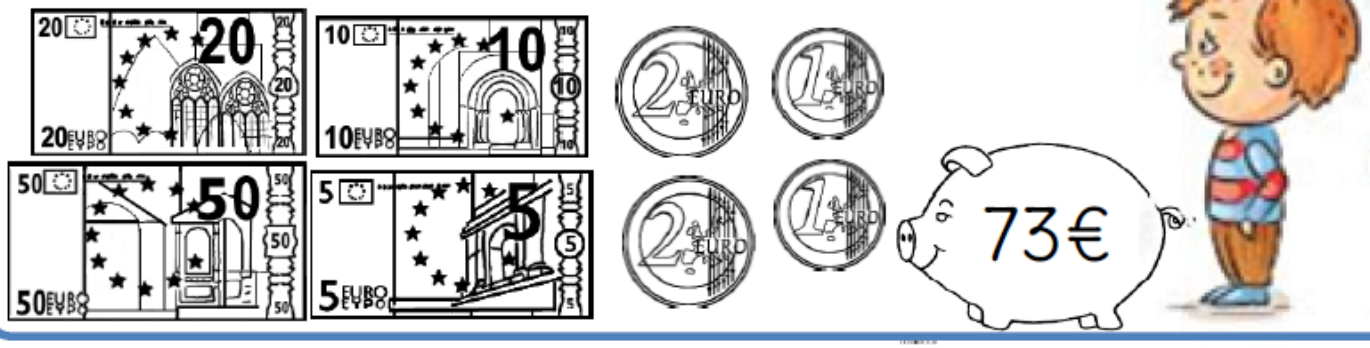

ACTIVITES RITUALISEES : Les presque doubles

Calcule en utilisant les doubles.

5 + 6 = 5 + 5 + 1 = 10 + 1 = 11

6 + 7 = 6 + 6 + 1 = 12 + 1 = 13

8 + 9 = 8 + 8 + 1 = 16 + 1 = 17

7 + 8 = 7 + 7 + 1 = 14 + 1 = 15

4 + 5 = 4 + 4 + 1 = 8 + 1 = 9

6 + 8 = 6 + 6 + 2 = 12 + 2 = 14

CALCUL MENTAL

CHRONOMATH 6

1	2 + 2 = 4	11	30 + 7 = 37
2	7 + 1 = 8	12	40 + 1 = 41
3	10 + 1 = 11	13	8 – 1 = 7
4	4 + 2 = 6	14	17 – 1= 16
5	6 + 2 = 8	15	28– 1= 27
6	10 + 9 = 19	16	15 – 1 = 14
7	4 + 4 = 8	17	15 – 2 = 13
8	7 + 3 = 10	18	26 – 1 = 25
9	5 + 5 = 10	19	28 – 3 = 25
10	5 + 6 = 11	20	30 – 5 = 25

CALCUL calculer des additions en ligne.

Méthodologie: commencer par additionner les unités avec les unités, puis les dizaines avec les dizaines. Pour aider, colorier les unités en bleu et les dizaines en rouge.

Calcule en ligne:

23 + 41 = 64	52 + 12 = 64	30 + 17 = 47
35 + 24 = 59	47 + 41 = 88	71 + 26 = 97

APPRENTISSAGE : les nombres de 60 à 79

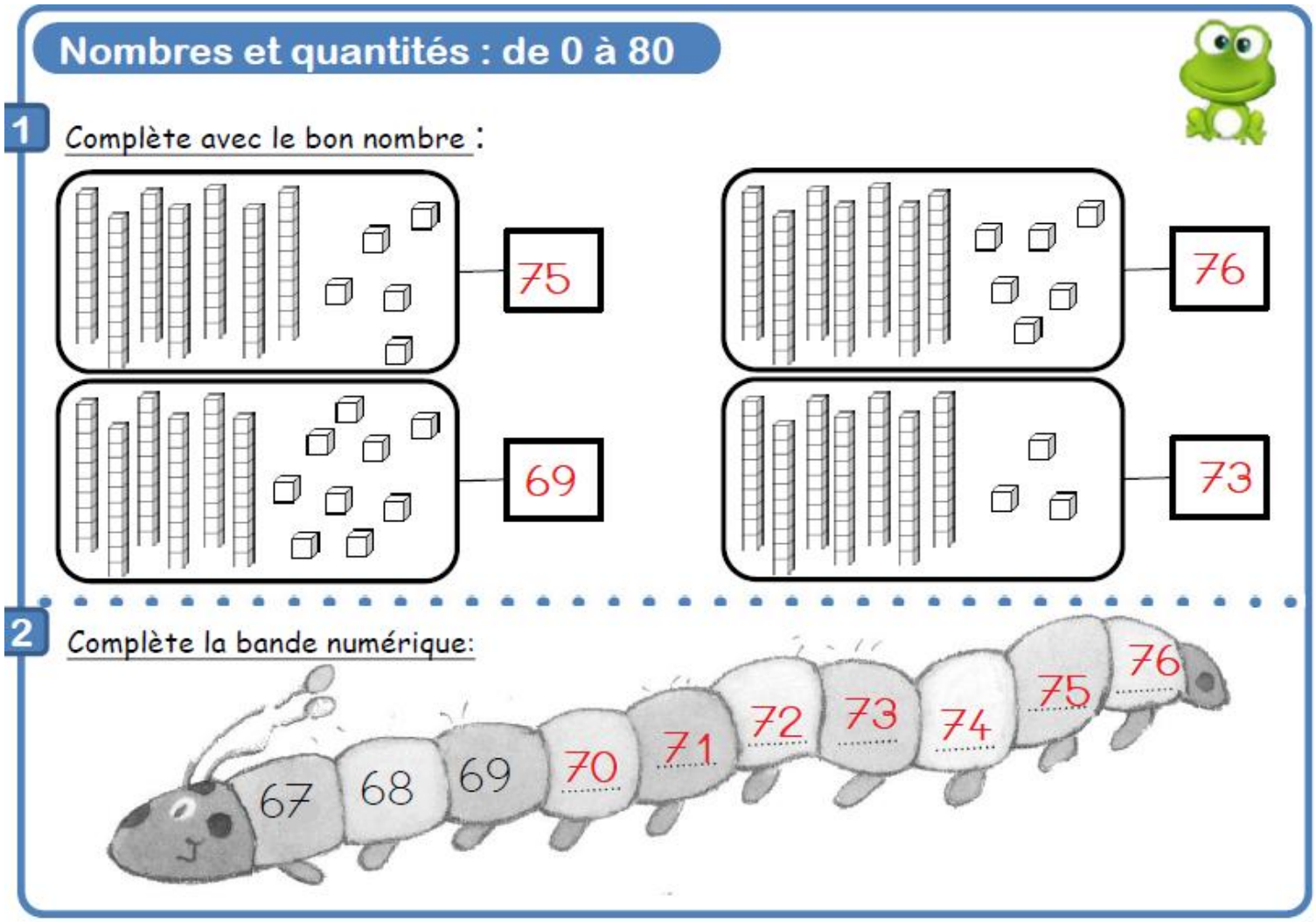

Nombres et quantités : de 0 à 80

1 Complète les cases grises du tableau des nombres

30	31	32	33		35	36		38	39
	41		43	44	45	46	47	48	
50	51	52	53	54	55		57	58	59
60	61	62		64	65	66	67		69
70		72	73	74	75	76		78	79

2 Colorie les pièces et billets correspondants à la somme dans la tirelire :